Distinguer montages simples, en série ou en dérivation

Entoure les bonnes réponses.

A

• La lampe brille normalement.
• La lampe brille faiblement.
• La lampe ne brille pas.

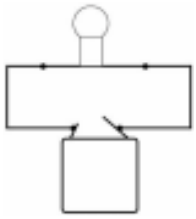

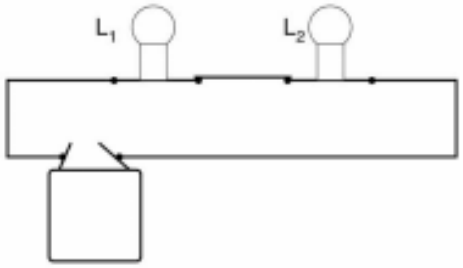

B

• Les 2 lampes brillent.
• Les 2 lampes sont éteintes.
• Les 2 lampes brillent normalement.
• Les 2 lampes brillent autant l'une que l'autre.
• Les 2 lampes brillent faiblement.
• La lampe 1 brille plus que la lampe 2.

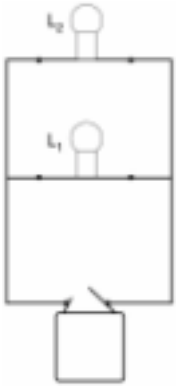

C

• Les 2 lampes brillent normalement.
• La lampe 1 éclaire plus que la lampe 2.
• Chacune des lampes éclaire autant que dans un montage simple.
• Les 2 lampes brillent autant l'une que l'autre.
• Une des lampes est éteinte.
• Une des lampes éclaire moins que l'autre.
• Les 2 lampes brillent faiblement.

D

• 1 seule lampe brille.
• Les 2 lampes brillent.
• Les 2 lampes sont éteintes.
• Le circuit est ouvert.
• La pile ne s'use pas.

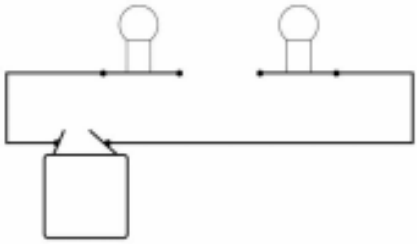

E
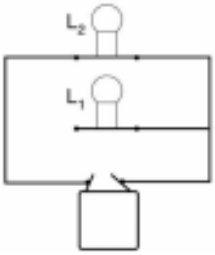
• Les 2 lampes sont éteintes.
• La lampe 1 est éteinte.
• La lampe 2 est allumée.
• La lampe 2 brille normalement.
• Ce montage est un montage en série.