Le jour et la nuit (2)

①

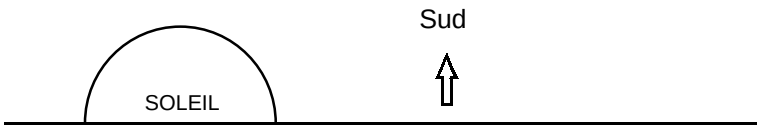

a) Camille regarde l'horizon de sa fenêtre.
A ton avis, à quel moment de la journée se trouve-t-elle? ……

b)

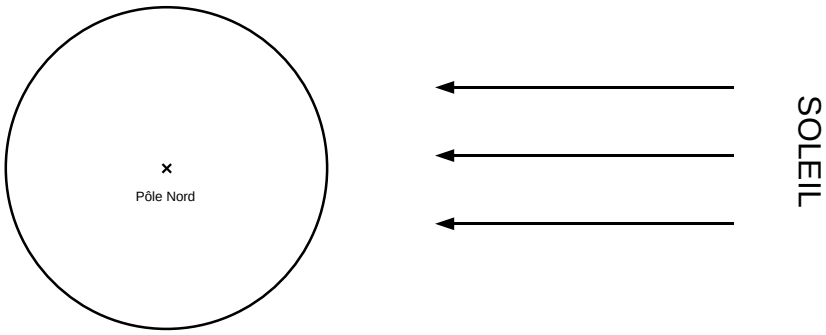

Terre vue de dessus

- Place la nuit sur le globe.
- Dessine Camille en t'aidant du sens de rotation de la Terre.

②

Il est midi. (schéma 1)
La personne qui regarde le paysage représenté a le nord dans le dos.
Indique sur le dessin où se trouvent l'est et l'ouest dans les cases correspondantes.

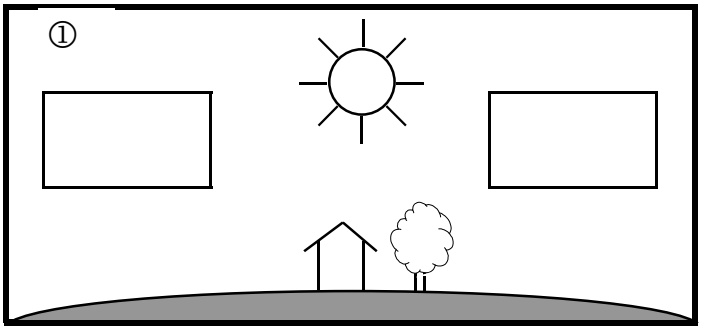

Quelques heures plus tard (schéma 2).
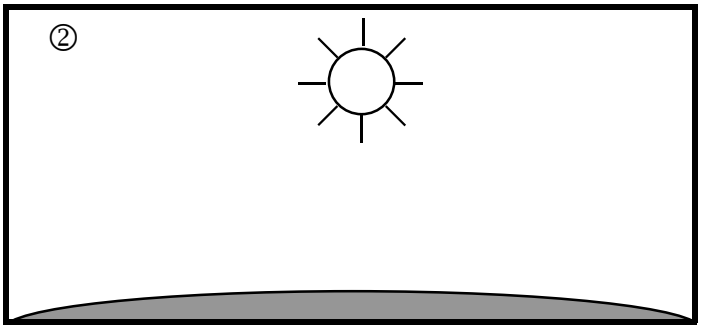
Dessine la maison à la place qui convient sur le dessin.